（第2回）

中2024

社　会

始める前に下の注意事項を読みなさい。

○始まりの合図があるまで開いてはいけません。
○問題は全部で 20 ページあります。
○答えはすべて解答用紙に書きなさい。
○始まりの合図で、解答用紙に受験番号、氏名を書きなさい。
○質問があるときは静かに手をあげ先生の指示を待ちなさい。
○終わりの合図で、ただちに筆記用具を置きなさい。

1　次の記事を読んで、あとの問いに答えなさい。

読者から寄せられた疑問を編集部が調査するコーナーです。今回はＭさん（埼玉県・５年）から寄せられた「子どもも税金ってはらうの？」という質問に答えます。

【Ｍさん（埼玉県・５年）の疑問】
「塾で税金について習ったときに子どもも税金をはらっていると知り、なんでだろうと思いました。」

【子どもの環境・経済教育研究室の泉美智子さんの回答】
はらう人の年齢にかかわらず、得たお金や行いから課せられる税金があります。公平・平等に集めるためですが、絶対に変えられない決まりではないです。「①納税者」として意見したり、使い道を調べたりするのも大切です。

税を「公平」に集めるため
今回は経済について子ども向けの教室を開いている「子どもの環境・経済教育研究室」代表の泉美智子さんに聞きました。たしかに、子ども（未成年）が税金をはらう場面は意外と多いです。

多くの小学生が経験しているのは「消費税」でしょう。②商品を買う時に食品などは８%、それ以外のほとんどは10%分を税金の分として上乗せしてはらっています。

さらに子役タレントなど、子どもが働いてお金をかせいだ場合、一定の金額をこえれば③「所得税」が課せられます。

外国から輸入されるものは品目によって、日本に持ちこむ際に（　4　）をはらう必要があります。その商品を子どもが買えば、間接的に（　4　）分を負担することになります。

銀行の利息にも税金

泉さんが「あまり知られていない」と言うのが、お年玉などを銀行や郵便局にあずけた時に課せられる税金です。金額に応じて利息がはらわれますが、その利息には20.315％の税率で税金が課されます。銀行が税金の分を差し引いてから預金した人に利息をはらうので、自分でおさめる必要はありません。

こうした税金には「何歳からはらう」という決まりがありません。泉さんによると、年齢などにかかわらず、税を「公平」に集めるという目的からだそうです。⑤たとえば「子どもは消費税を負担しなくていい」ルールだったら（略）。

所得、消費に対して平等に

「どの年齢の人が」は関係なく、「所得」の大きさや、「消費」という行動に対して、広く平等に税を集めています。このやり方は世界でもめずらしくなく、日本の消費税にあたる「付加価値税」は多くの国で取り入れられています。ぬけ道をなくすことで、「毎年の税収が大きく変わらないようにする」という考えもあるようです。
もっとも、子どもも税を負担するのは絶対的な決まりではありません。「お金をかせいでいない子どもがはらうのはおかしい」という声が高まれば、国民の代表が集まる国会で議論して、ルールが変わる可能性もあります。

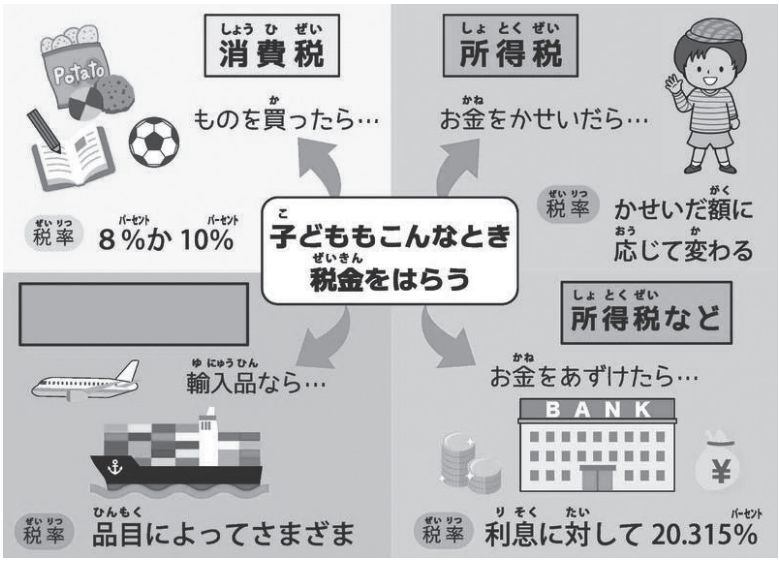

イラスト・やないゆうじ

納税者として関心を

一方で、子どもも「納税者」であるのは悪いことばかりでないと泉さんは言います。学校、公園、図書館など、身の回りには税金で設けられた施設、行われているサービスがたくさんあります。もし公園の遊具がこわれているなら、納税者として自治体に意見を伝え、直してもらうことができます。

「そのためには⑥税金の使い道を調べることが大切です。税金は社会のしくみや歴史などにも深くかかわります。勉強すると、とてもおもしろいですよ」（松村大行）

（朝日小学生新聞 2023 年 3 月 28 日付）

問１　下線部①について、日本国憲法で定められている国民の義務（ぎむ）は、「納税の義務」・「教育を受けさせる義務」ともう一つは何か、**漢字２字**で答えなさい。

問２　下線部②について、コンビニエンスストアで次の商品を１つずつ買ったときに支払う消費税を計算して答えなさい。（すべて家に持ち帰るものとする）

・ボールペン（200 円）　　・ティッシュ（300 円）
・お弁当（べんとう）（500 円）　　・スナック菓子（がし）（100 円）
・惣菜（そうざい）パン（200 円）

問３　下線部③の所得税は、所得が増えるにしたがって税率が高くなる制度（せいど）がとられています。所得の高さに応じて課税することで税の負担を公平にして、所得の格差（かくさ）を少なくしようとしたしくみです。これを何というか、次の**ア～エ**から１つ選び、記号で答えなさい。

ア　公平課税制度
イ　累進（るいしん）課税制度
ウ　比例課税制度
エ　一律課税制度

問４　文中の（　**４**　）にあてはまる語句を**漢字**で答えなさい。

問５　下線部⑤について、「小学生以下の子どもは消費税を負担しなくていい」ルールにした場合、どのような問題が起こると考えられますか、想定（そうてい）される問題を 40 字程度（ていど）で答えなさい。

問６　下線部⑥について、国の税金の使いみちでもっとも多く支出（ししゅつ）されているものを、次の**ア**～**エ**から１つ選び、記号で答えなさい。

ア　道路や住宅などを整備する公共事業費（こうきょうじぎょうひ）
イ　健康や生活を守る社会保障費（しゃかいほしょうひ）
ウ　地方を支援する地方交付金等（ちほうこうふきんとう）
エ　国債（こくさい）の返済や利子の国債費

2　次の会話文を読み、あとの問いに答えなさい。

社会科の授業で、好きな料理の食材について調べて、レポートをつくる課題がでました。

〈課題が出た日の帰り道での会話〉

アキラ：社会の課題は回鍋肉（ホイコーロー）を調べるよ。昨日の夕食が回鍋肉だったんだ。

マナブ：ホイコーローって、どんな料理だっけ。

アキラ：①豚肉とキャベツを炒（いた）めて、②中華料理の調味料で甘辛（あまから）にした料理だよ。

マナブ：あぁ、それなら食べたことある。ご飯と合うよね。アキラのところはピーマンとかネギを入れる？

アキラ：うん。ピーマンとネギも入っているよ。今回は、豚肉と③キャベツ、ピーマン、ネギについて調べるんだ。

〈課題を出す日の登校中の会話〉

アキラ：昨日、食材の生産地をタブレットで調べてみたよ。

マナブ：何かわかった？

アキラ：教科書に④嬬恋村（つまごい）のキャベツ生産についてのっていたけれど、キャベツ生産は嬬恋村がある県が生産量１位だった。それにピーマンやネギより全国での生産量がずっと多くて驚いたよ。

マナブ：そうなんだ。たしかにキャベツはよく食べる野菜だからね。

アキラ：あとはピーマンが九州や四国でたくさんつくられていたよ。それと、ネギの生産量は東京の近くの県が１位から３位だった。

マナブ：ピーマンは夏野菜だから、暖かい地域が多いのかな。でも、ピーマンって一年中お店で売っているよね。

アキラ：それは授業で習った⑤ビニールハウスでの栽培方法のおかげだよ。

マナブ：そういえば習ったね。

問１　下線部①に関連して、下の表は豚、肉用牛、乳用牛、採卵鶏（さいらんけい）の飼育頭数・羽数が多い都道府県をまとめたものです。豚の飼育頭数を表したものを次の**ア～エ**より１つ選び、記号で答えなさい。

＊採卵鶏：卵を採るために飼育されているニワトリ

	ア	**イ**	**ウ**	**エ**
１位	北海道 61.7%	鹿児島 13.4%	北海道 21.2%	茨　城 8.4%
２位	栃　木 4.0%	宮　崎 8.5%	鹿児島 12.9%	千　葉 7.1%
３位	熊　本 3.2%	北海道 8.1%	宮　崎 9.7%	鹿児島 6.5%
４位	岩　手 2.9%	群　馬 6.8%	熊　本 5.1%	広　島 5.5%
全国 （万頭・万羽）	137.1	894.9	261.4	18010

日本国勢図会 2023

問２　下線部②に関連して、日本各地にある中華街（ちゅうかがい）は、中国の料理や文化を広げる発信地となりました。江戸時代の鎖国していた時期にも中国人が居住し、その後、中華街がつくられたのはどこでしょうか。その場所を下の**ア～エ**より１つ選び、記号で答えなさい。なお、この中華街は、ちゃんぽんが有名です。

ア　横浜　　**イ**　神戸　　**ウ**　福岡　　**エ**　長崎

問３　下線部③に関連して、次の円グラフはキャベツ、ピーマン、ネギの都道府県別の生産割合を表しています。**ア～ウ**それぞれの円グラフに適する農産物を答えなさい。

ア

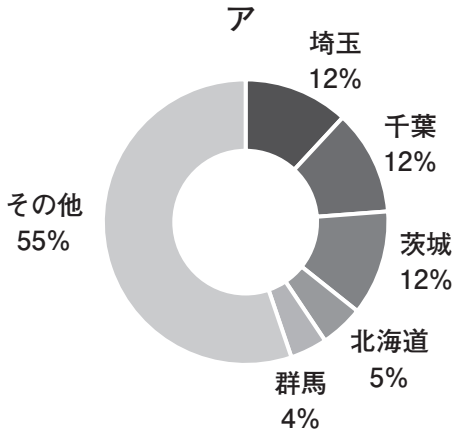

イ

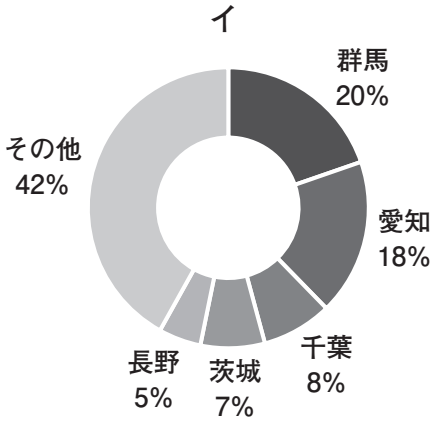

ウ

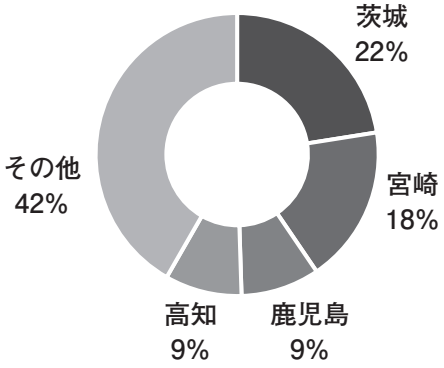

日本国勢図会 2023

問４　次の表はキャベツ、ピーマン、ネギ、コメの年間生産量を比較したものです。キャベツの年間生産量を示すものを**ア～エ**より１つ選び、記号で答えなさい。

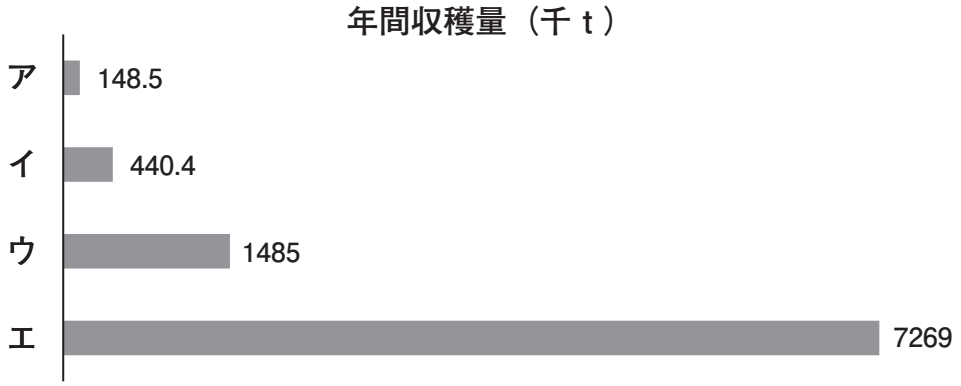

日本国勢図会 2023

問５　下線部④の嬬恋村の位置を下の地図の**ア～エ**より１つ選び、記号で答えなさい。

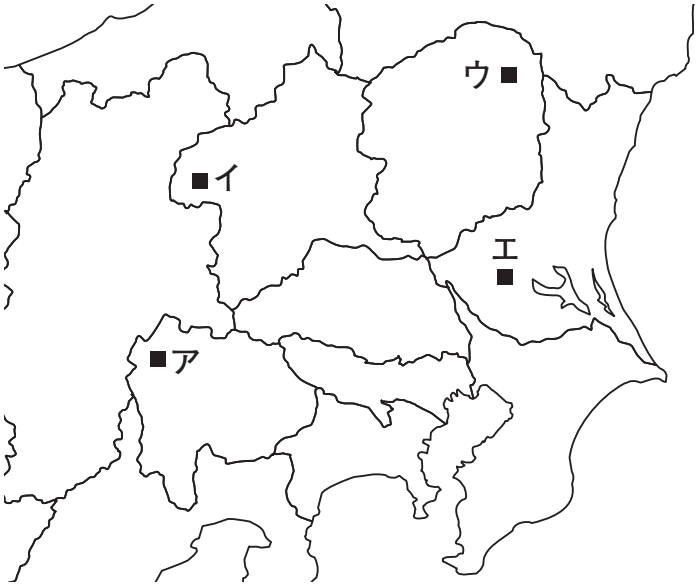

問６　下線部④に関連して、下の雨温図は、嬬恋村、宇都宮、水戸、熊谷のものです。嬬恋村の雨温図を次の**ア～エ**より１つ選び、記号で答えなさい。

ア

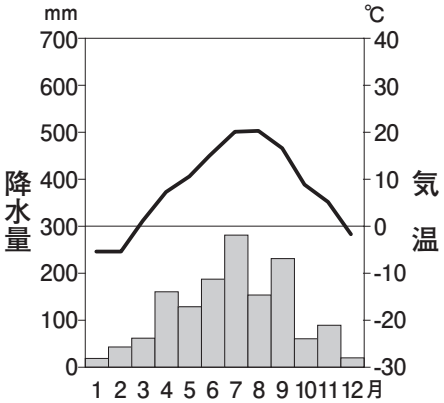

年平均気温：7.9℃　年降水量：1447.5mm

イ

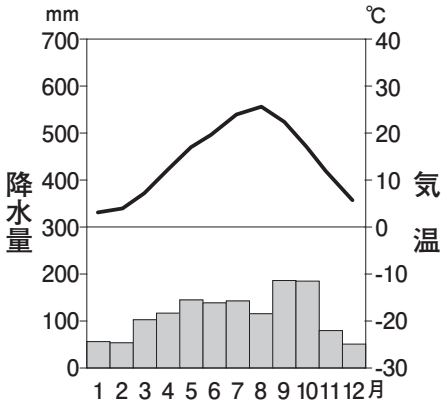

年平均気温：14.1℃　年降水量：1367.7mm

ウ

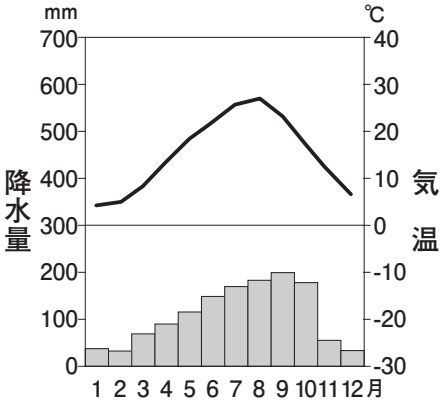

年平均気温：15.4℃　年降水量：1305.9mm

エ

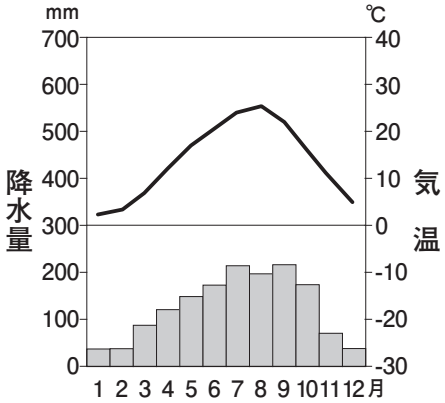

年平均気温：14.2℃　年降水量：1524.6mm

問７　下線部④の嬬恋村は、夏から秋のキャベツ出荷量が日本一です。それは、嬬恋村の自然環境をいかした栽培により、ほかの産地の生産が少ない時期に出荷できるからです。嬬恋村で夏にキャベツを出荷できるのは、どのような自然環境だからでしょうか。地形や気候を含めた自然環境を **12 字～ 20 字**で説明しなさい。

問８　下線部④に関連して、下の嬬恋村の農業統計より読み取れる内容として**誤っているもの**を次の**ア～エ**より１つ選び、記号で答えなさい。

基幹的（きかんてき）農業従事者・耕地面積

	基幹的農業従事者（人）	経営耕地（単位：a）			
		総面積	田	畑	樹園地
2005 年	1,552	332,507	5,324	326,134	1,049
2010 年	1,454	353,572	4,715	344,935	3,922
2015 年	1,398	339,028	4,119	332,710	2,199
2020 年	1,108	337,416	3,935	328,565	4,916

嬬恋村統計書（令和４年）

ア　2005 年以降、調査のたびに基幹的農業従事者は減少している。
イ　2020 年の経営耕地の総面積のうち、9 割以上が畑である。
ウ　2010 年以降、畑の耕地面積は減少している。
エ　2015 年から 2020 年の間に最も耕地面積が減少したのは田である。

問９　下線部④の嬬恋村の地形図から読み取れる内容として**誤っているもの**を右の**ア～エ**より１つ選び、記号で答えなさい。

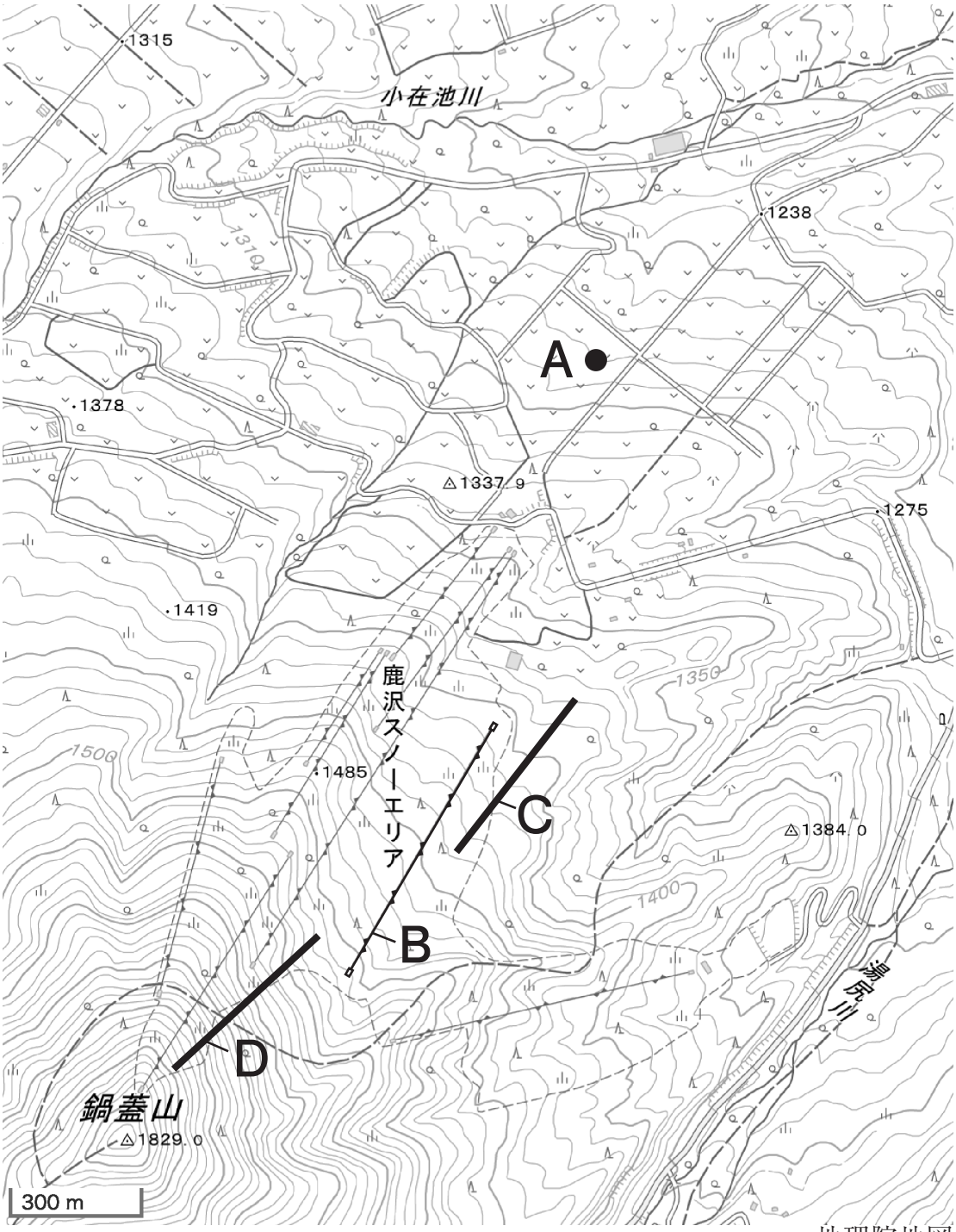

地理院地図

ア　A 地点の標高は 1280m である。

イ　A 地点の周辺には畑が広がっている。

ウ　スノーエリアの B のリフトの高低差は約 100 m である。

エ　スノーエリアの C と D の斜面を比べると、C の方が急斜面である。

問 10　下線部⑤に関連して、ビニールハウスなどを利用して、早く種をまき、作物の収穫時期を早めて栽培する方法を何といいますか。**漢字 4 字**で答えなさい。

3　次の文章を読み、あとの問いに答えなさい。

奈良県王寺町にある達磨寺は、①聖徳太子ゆかりの寺の一つです。

『(　A　)』によると、推古天皇21年（613年）12月、聖徳太子が道のほとりに伏せっていた飢人（飢えた人）を見つけ、飲み物と食べ物、それに衣服を与えて助けましたが、飢人は亡くなってしまいました。そのことを大いに悲しんだ聖徳太子は、飢人の墓をつくり、厚く葬りましたが、数日後に墓を確認してみると、埋葬したはずの飢人の遺体が消えてなくなっていました。この飢人が達磨大師の生まれ変わりと考えられるようになり、達磨寺は生まれました。

このように、聖徳太子と達磨大師の出会いからはじまった達磨寺には、今も本堂の下に達磨寺3号墳とよばれる②古墳時代後期の円墳があります。これが、聖徳太子が飢人のためにつくったお墓、つまり達磨大師の墓とされ、鎌倉時代にその上にお堂が建てられて、聖徳太子像と達磨大師像が安置されました。

その後、東大寺や興福寺などからの弾圧を受けて寺は荒廃しましたが、室町時代には幕府の保護のもと大規模な復興がなされています。本堂の北にある「中興記石幢」には、荒廃していた達磨寺を、南峯和尚が室町幕府の将軍③足利義満、義持、義教らの力添えをえながら復興を成し遂げていった経過が刻まれています。

寺の境内には、④織田信長の攻撃を受けて自害した松永久秀の墓もあります。

1602年には⑤徳川家康が達磨寺に寺領30石と竹林を寄付する朱印状が発行されています。朱印状は将軍の代替わりごとに発行され、現在でも徳川15代将軍のうち12通の朱印状が伝えられています。

問１　下線部①の聖徳太子がおこなったこととして**誤っているもの**を次の**ア～エ**から１つ選び、記号で答えなさい。

ア　十七条の憲法を制定し、役人の心構(こころがま)えを示した。
イ　冠位(かんい)十二階を定め、能力や功績(こうせき)のある者を役人に登用(とうよう)した。
ウ　政治の実権を握(にぎ)っていた蘇我(そが)氏を倒して大化の改新をおこなった。
エ　仏教を深く信仰(しんこう)し、法隆寺(ほうりゅうじ)を建てた。

問２　空らん（　A　）には、720年に完成した、日本最古の公式の歴史書の名前が入ります。適当な語句を**漢字４字**で答えなさい。

問３　下線部②の古墳の説明として**誤っているもの**を次の**ア～エ**から１つ選び、記号で答えなさい。

ア　古墳は、その地域を支配していた王や豪族(ごうぞく)の墓だと言われている。
イ　遺体(いたい)とともに銅鏡やまが玉、鉄製のかぶとなどが埋葬(まいそう)された。
ウ　古墳をおおう盛(も)り土の上にはさまざまな形の土偶(どぐう)が並べられた。
エ　大阪にある大仙(だいせん)古墳は日本最大の古墳である。

問４　下線部③の足利義満と最も関わりが深い建物の写真を次の**ア～エ**から１つ選び、記号で答えなさい。

ア

イ

ウ

エ

問５　下線部④の織田信長に関する文章として**誤っているもの**を次の**ア**～**エ**から１つ選び、記号で答えなさい。

ア　将軍足利義昭（よしあき）を京都から追放し、室町幕府を滅亡（めつぼう）させた。
イ　城下町である安土で、市場の税をなくして自由に商売ができるようにした。
ウ　本能寺の変で家臣（かしん）の明智光秀（あけち）に攻められた。
エ　宣教師（せんきょうし）を日本から追放してキリスト教を弾圧（だんあつ）した。

問６　下線部⑤の徳川家康に関連する次の**ア**～**エ**の出来事を年代が古い順に並び替え、記号で答えなさい。

ア　大阪の陣で豊臣氏を滅亡させた。
イ　織田信長と連合し、長篠（ながしの）の戦いで武田勝頼（かつより）の軍を破った。
ウ　征夷（せい い）大将軍に就任（しゅうにん）し、江戸に幕府を開いた。
エ　関ヶ原の戦いで石田三成を中心とする西軍を倒（たお）した。

4　次の文章を読み、あとの問いに答えなさい。

日本の植物分類学の父とされる牧野富太郎博士は、① 1862年に土佐（現在の高知県）で生まれました。この時代は、1853年のアメリカ使節（　A　）来航に始まる幕末動乱の時代であり、日本が近代国家への道を歩き出した時でもありました。牧野は10歳から（　B　）で算術や漢学を学び、土佐藩の郷校（藩校の分校）である名教館では地理や物理、天文など先進的な学問を身につけました。1874年に小学校に入学しましたが、1876年には自主退学してしまいました。その後、ほぼ独学で植物の知識を身につけ、1884年に東京大学の理学部植物学教室へ出入りするようになります。全国各地で植物採集をおこない、1889年に新種のヤマトグサに学名をつけました。これが国内において日本人が命名した最初とされています。

1893年から大学の助手として働くようになり、1896年には日本調査団の一員として、下関条約により日本の植民地となった（　C　）へ派遣されました。

1926年に北豊島郡大泉村（現在の練馬区東大泉）に自宅を建て、亡くなるまでそこに暮らしました。1927年に理学博士の学位を受け、1940年には『牧野日本植物図鑑』を発行しました。1945年に東京がたびたび（　D　）されるようになると、牧野は山梨県へ（　E　）して、終戦までの日々をすごしました。② 1954年にかぜをこじらせてからは、ねこんでしまうことが多くなり、1957年、家族に見守られて94歳で亡くなりました。

問１　下線部①に関連して、1862年に坂本龍馬(りょうま)は土佐藩を脱藩(だっぱん)しました。坂本龍馬がおこなったこととして正しいものを次の**ア～エ**から１つ選び、記号で答えなさい。

ア　アメリカに留学して英語を学び、帰国後に女子英学塾(じゅく)を設立した。

イ　戊辰(ぼしん)戦争中に西郷隆盛(さいごうたかもり)と話し合い、戦わずに江戸城を明け渡すことを決めた。

ウ　薩摩(さつま)藩と長州藩が幕府を倒すためにひそかに同盟(どうめい)をむすぶように働きかけた。

エ　下関(しものせき)に砲台(ほうだい)をつくり、外国の船を攻撃した。

問２　文中の空らん（　A　）に入る人名を**カタカナ**で答えなさい。

問３　文中の空らん（　B　）に入る、江戸時代から明治時代初期の民間教育施設(しせつ)の名前を**漢字３字**で答えなさい。

問４　文中の空らん（　C　）に入る地名を**漢字２字**で答えなさい。

問５　文中の空らん（　Ｄ　）と（　Ｅ　）に入る適当な語句の組み合わせとして正しいものを次の**ア～エ**から１つ選び、記号で答えなさい。

ア　Ｄ…空襲（くうしゅう）　Ｅ…勤労動員（きんろうどういん）
イ　Ｄ…空襲　Ｅ…疎開（そかい）
ウ　Ｄ…特攻（とっこう）　Ｅ…勤労動員
エ　Ｄ…特攻　Ｅ…疎開

問６　下線部②の 1954 年から 1957 年の間におきた出来事として正しいものを次の**ア～エ**から１つ選び、記号で答えなさい。

ア　日本の国際連合への加入が認められ、国際社会へ復帰した。
イ　アジアで初となる東京オリンピック・パラリンピックが開かれた。
ウ　アメリカに占領（せんりょう）されていた沖縄が返還（へんかん）され、沖縄が日本に復帰（ふっき）した。
エ　日韓（かん）基本条約を結び、大韓民国との国交が結ばれた。